FICHE GRATUITE · PROBLÈMES CE1-CE2

Comparer : je complète le schéma

15 min
Corrigés à la dernière page

Les deux barres sont dessinées. J'écris les nombres connus dans les cases et je mets un « ? » sur ce que je cherche. La plus longue barre est celle de la plus grande quantité.

1 ★ Hugo a 37 cartes. Lou en a 54. Combien de cartes Lou a-t-elle de plus que Hugo ?

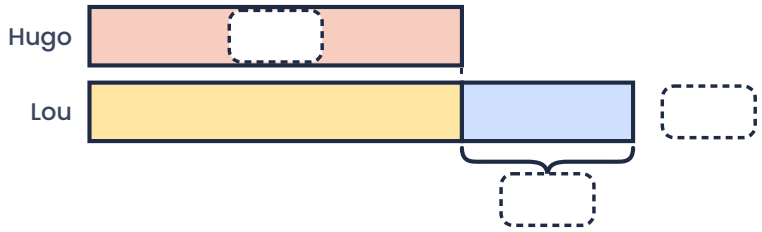

Mon calcul : .....

Ma réponse : Lou a ..... cartes de plus.

2 ★ Le sapin mesure 85 cm. Le cactus mesure 47 cm de moins que le sapin. Combien mesure le cactus ?

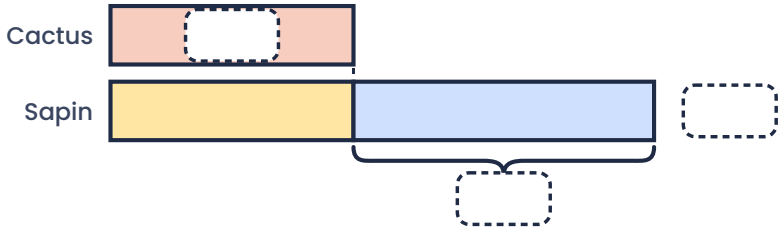

Mon calcul : .....

Ma réponse : Le cactus mesure ..... cm.

3 ★ Aya a lu 26 pages. Rémi a lu 19 pages de plus qu'Aya. Combien de pages Rémi a-t-il lues ?

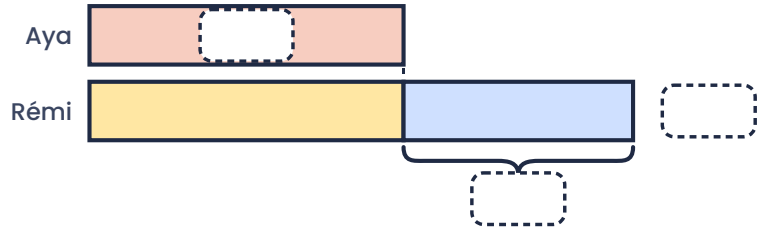

Mon calcul : .....

Ma réponse : Rémi a lu ..... pages.

FICHE GRATUITE · PROBLÈMES CE1-CE2

Comparer : je dessine seul

15 min
Corrigés à la dernière page

4 ★ Paul a 72 €. C'est 25 € de plus que sa sœur. Combien d'argent sa sœur a-t-elle ?

Mon calcul : .....

Ma réponse : Sa sœur a ..... €.

5 ★★ Un casque coûte 25 €. Le vélo coûte 4 fois plus que le casque. Combien coûte le vélo ?

Mon calcul : .....

Ma réponse : Le vélo coûte ..... €.

6 ★★ Le grand aquarium contient 48 poissons. C'est 6 fois plus que le petit aquarium. Combien de poissons y a-t-il dans le petit aquarium ?

Mon calcul : .....

Ma réponse : Il y a ..... poissons dans le petit aquarium.

7 ★★ Sam a 15 billes. Léa a 3 fois plus de billes que Sam. Combien de billes Léa a-t-elle de plus que Sam ?

Mes calculs : .....

.....

Ma réponse : Léa a ..... billes de plus que Sam.

Je retiens

« 3 de plus » → j'ajoute 3. **« 3 fois plus »** → je multiplie par 3. **L'écart** = la grande - la petite.

FICHE GRATUITE · POUR LE PARENT

Les corrigés

15 min
Corrigés à la dernière page

1. 54 - 37 = 17 → Lou a 17 cartes de plus.

2. 85 - 47 = 38 → Le cactus mesure 38 cm.

3. 26 + 19 = 45 → Rémi a lu 45 pages.

4. 72 - 25 = 47 → Sa sœur a 47 €.

5. 25 × 4 = 100 → Le vélo coûte 100 €.

6. 48 ÷ 6 = 8 → Il y a 8 poissons dans le petit aquarium.

7. 15 × 3 = 45 ; 45 - 15 = 30 → Léa a 30 billes de plus que Sam.

Pour le parent

Le piège à surveiller : au problème 4, « 25 € de plus que sa sœur » se calcule avec une soustraction. Si votre enfant a fait 72 + 25, demandez-lui : « Qui a le plus d'argent ? Montre-moi sa barre. »



Pour aller plus loin

Dans le cahier « Problèmes de maths CE1-CE2 », le parcours de la fête foraine (6 séances) et celui du port font travailler les comparaisons « de plus », « de moins » et « fois plus », avec le schéma en barres.

monenfantapprend.com/cahier-problemes-ce1-ce2

ENVIE DE CONTINUER ?

La suite de cette fiche est dans le cahier « Problèmes de maths CE1-CE2 »

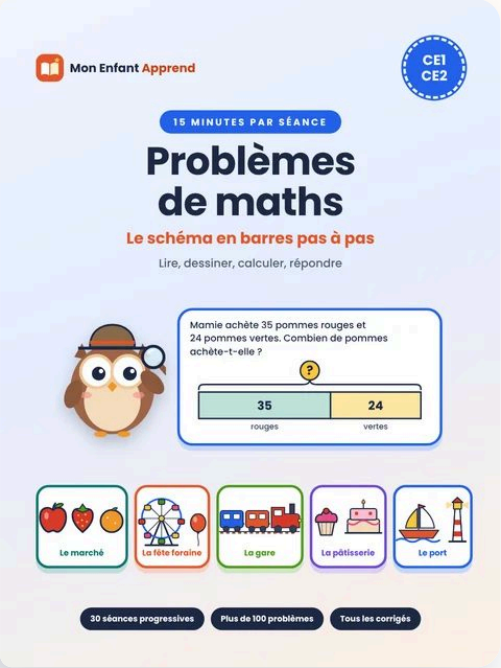

Comparer sans se tromper, en 6 séances

Un cahier pour résoudre les problèmes de maths au CE1 et au CE2 grâce au schéma en barres, pas à pas.

Les 5 schémas sont découverts un par un, avec un exemple résolu, puis à compléter, à choisir et à dessiner seul. Corrigés inclus.

14 €

PDF à imprimer · téléchargement immédiat

Découvrir le cahier et voir des pages en extrait

monenfantapprend.com/cahier-problemes-ce1-ce2

Pourquoi un cahier ? Une fiche, c'est une séance. Le cahier, c'est une progression complète dans le bon ordre, avec un guide pour le parent et tous les corrigés, pour avancer un peu chaque jour sans rien préparer.